Méca 05

Titre :

On dispose d'un sachet contenant toutes les pièces nécessaires à la construction des modèles présentés sur les photos suivantes.

Construction d'un modèle ressemblant au plateau et au pignon de la bicyclette.



VUE DE FACE



VUE ARRIÈRE



VUE DE TROIS QUARTS



VUE DE DESSUS



VUE DE TROIS QUART INVERSÉ

Construction d'un modèle d'engrenage dont les roues dentées ont des dimensions proches du plateau et du pignon.



VUE DE FACE



VUE ARRIÈRE



VUE DE TROIS QUARTS



VUE DE DESSUS



VUE DE PROFIL

Une fois les modèles réalisés, que constate-t-on lorsqu'on fait effectuer un tour à la plus grande roue ?

Prénom et Nom : _____ Date : _____ Classe : _____